محاضرة 8 د. محمود خيري الرفاعي 23/11/2016

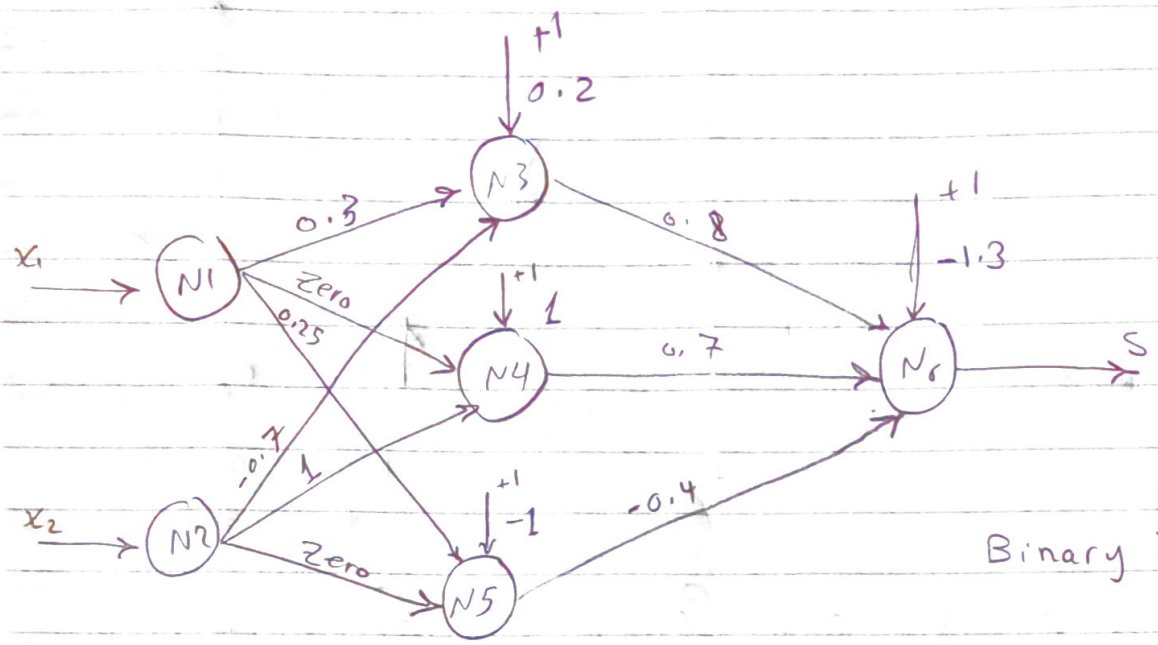

Binary Threshold

① أثبت أن الشبكة يمكن أن تعمل كـ 2-Class Classifier حيث النقط داخل مثلث قائم الزاوية تتحدد بالقيمة S=1 بينما كل النقط خارج هذا المثلث تتحدد بالقيمة S=0

② حدد رؤوس المثلث (Vertices) المشار إليه في الجزء ①

③ ما هي العملية المنطقية التي يقوم بها (N6) على الـ Signals الناتجة من N3, N4, N5 ؟

④ وضح كيف ستقوم الشبكة بتصنيف الـ inputs (0,0) (2,0) (4.5, 0) (-3.6, 1.7)

For N3:

Activation $y_3 = 0.3\,x_1 - 0.7\,x_2 + 0.2$

For N4:

$y_4 = x_2 + 1 \quad (w_{14} = 0)$

Network is partially connected

For N5

$y_5 = 0.25\,x_1 - 1 \quad (w_{25} = 0)$

The 3 straight lines

$0.3\,x_1 - 0.7\,x_2 + 0.2 = 0 \quad (y_3 = 0)$

$x_2 + 1 = 0 \quad (y_4 = 0)$

$0.25\,x_1 - 1 = 0 \quad (y_5 = 0)$

تمثل ثلاثة خطوط فصل في مستوى $x_1 - x_2$

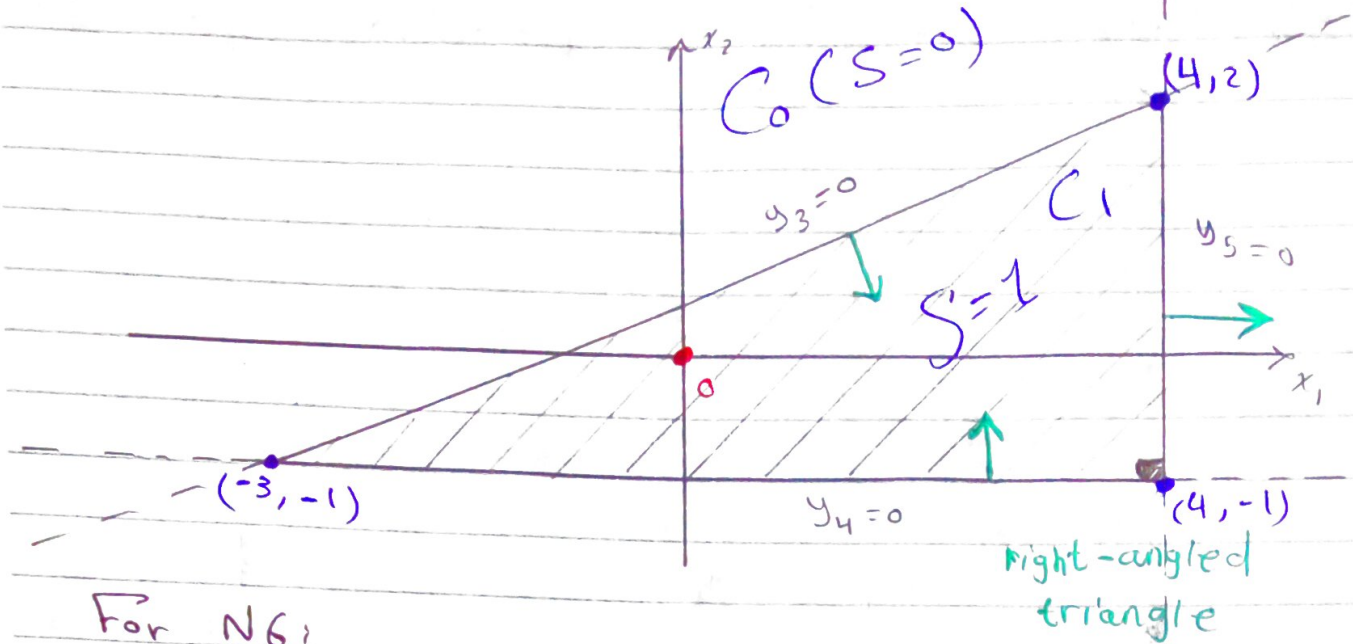

For N6:

$$y_6 = 0.8\, f(y_3) + 0.7\, f(y_4) - 0.4\, f(y_5) + 1.3$$

يتضح من العلاقة السابقة أن y_6 لها قيمة موجبة عندما

$f(y_3) = 1$, $f(y_4) = 1$; $f(y_5) = 0$

بينما y_6 لها قيمة سالبة عند قيم أخرى

So, we have N6 does the logic operation

$f(y_3)\, f(y_4)\, f'(y_5)$

$f(y_3)$	$f(y_4)$	$f(y_5)$	y_6	
0	0	0	1.3	0
0	0	1	1.7	0
0	1	0	0.6	0
0	1	1	-1	0
1	0	0	0.5	0
1	0	1	-0.9	0
1	1	0	0.2	1
1	1	1	-0.2	0

* يمكن النظر لمستوى x_1-x_2 على أنه 7 أجزاء بواسطة خطوط الفصل الثلاثة

* $S=1 \Rightarrow$ بأخذ الـ orientation في الاعتبار نجد أن جميع النقط التي بداخل المثلث قائم الزاوية بالموضع تتميز بالقيمة $S=1$ output بـ $S=0$ بينما جميع النقط خارج هذا المثلث تتميز بالقيمة

* وبعبارة أخرى فقد تم تقسيم مستوى x_1-x_2 عن طريق خطوط الفصل الثلاثة إلى منطقتين (2 regions)

C_0 (Exterior of triangle)

C_1 (interior of triangle)

جميع النقاط في C_0 تجعل y_6 سالبة و $S=0$ بينما كل النقاط في C_1 تجعل y_6 موجبة و $S=1$

x_1, x_2	y_3	$f(y_3$	y_4	$f(y_4$	y_5	$f(y_5)$	y_6	S	Co/C
(0, 0)									
(2, 0)									
(4.5, 0)									
(-3.6; 17)									

كمل الجدول

3D : Space

* Assume XOR and a hidden neuron $x_3 = x_1 x_2$

* hyper plane : General Seperator

* الفكرة معتمدة على توليد x_3 داخل الشكل من المدخلات x_1, x_2 حيث تعطي هذا ثالثا مما يعطي مرونة أكبر.

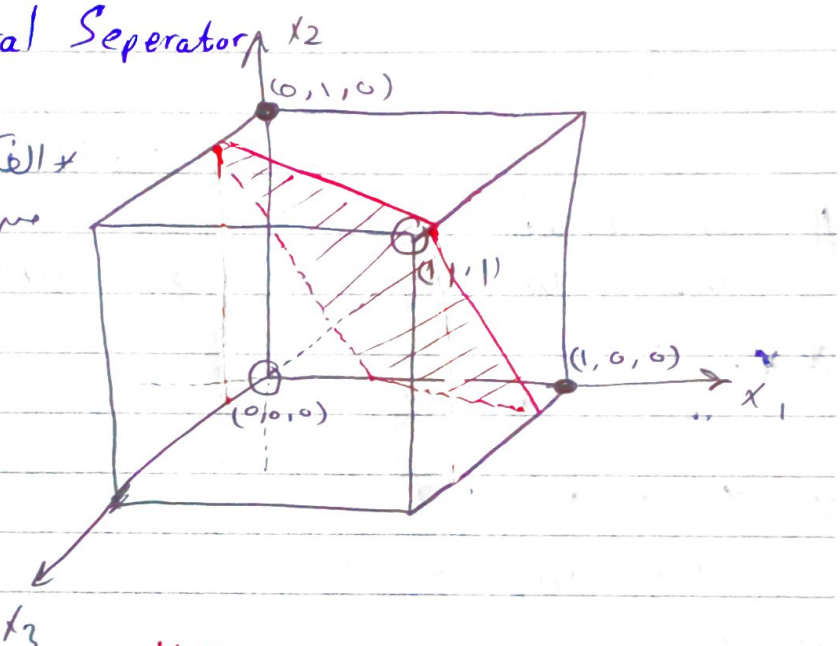

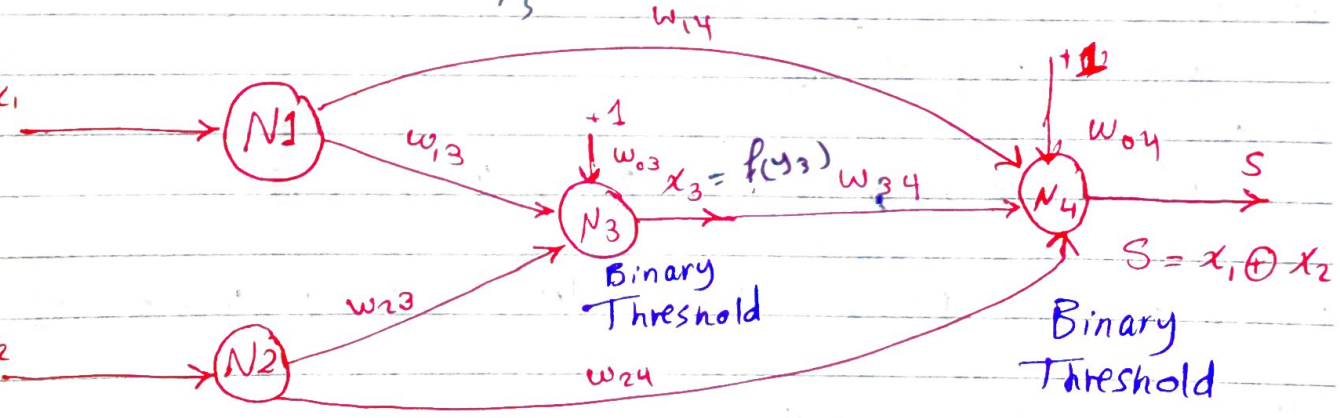

$x_1 - x_2$ plane ← x_1, x_2 من x_3 تم استغلال

space

2D ⟶ 3D

Assume $x_3 = x_1 x_2$ (Suggested)

Required $S = x_1 \oplus x_2$

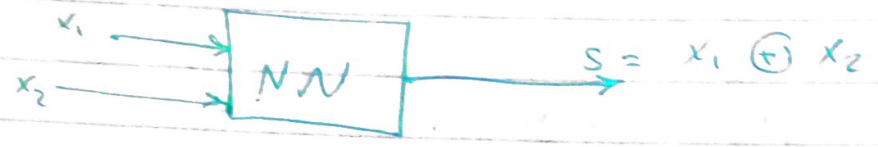

x_1	x_2	$x_3 = x_1 x_2$	$S = x_1 \oplus x_2$
0	0	0	0
0	1	0	1
1	0	0	1
1	1	1	0

نحسب الـ weights الخاصة بكل نيورون

For neuron N3

$$y_3 = w_{13} x_1 + w_{23} x_2 + w_{03}$$

* $x_1 = x_2 = 0$

$$y_3 = w_{03} < 0$$

* $x_1 = 0, \; x_2 = 1$

$$y_3 = w_{23} x_2 < 0$$

* $x_1 = 1, \; x_2 = 0$

$$y_3 = w_{13} x_1 + w_{03} < 0$$

* $x_1 = 1, \; x_2 = 1$

$$y_3 = w_{13} x_1 + w_{23} x_2 + w_{03} > 0$$

We choose $w_{03} = -1.5$; $w_{13} = 1$; $w_{23} = 1$

For neuron N4

$$y_4 = w_{14} x_1 + w_{24} + w_{34} x_3 + w_{04}$$ ← plane

* $x_1 = x_2 = 0, \; x_3 = 0$

$$y_4 = w_{04} < 0$$

* $x_1 = 0,\ x_2 = 1;\ x_3 = 0$

$$y_4 = w_{24} + w_{04} > 0$$

* $x_1 = 1,\ x_2 = 0;\ x_3 = 0$

$$y_4 = w_{14} + w_{04} > 0$$

* $x_1 = x_2 = x_3 = 1$

$$y_4 = w_{14} + w_{24} + w_{34} + w_{04} < 0$$

We choose $w_{04} = -0.5$; $w_{14} = 1$

$w_{24} = 1$; $w_{34} = -2$

$$y_4 = x_1 + x_2 - 2x_3 - 0.5$$

(3D space أي $x_1; x_2; x_3$ متغيرات 3 لأنه لدينا) Seperation plane هنا لدينا

نقاط على المستوى

(1, 0, 0.25)
(1, 1, 0.75)
(0, 0, -0.25)
(0, 1, 0.25)

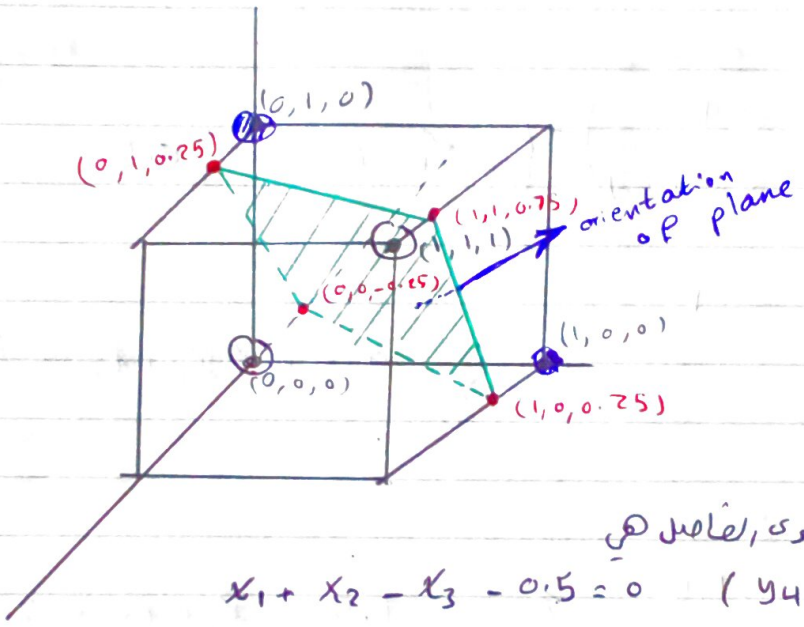

* معادلة المستوى الفاصل هي

$$x_1 + x_2 - x_3 - 0.5 = 0 \quad (y_4 = 0)$$

* النتيجة الهامة هنا أن النقطتين (0,0,0) و (1,1,1) تقعان على جانب واحد من مستوى الفصل حيث $y_4 < 0$ و $S = 0$

* بينما النقطتان (1,0,0) (0,1,0) تقعان على الجانب الآخر لمستوى الفصل حيث $y_4 > 0$ و $S = 1$

* هذه الشبكة استطاعت أن تجري عملية XOR

* وجدنا Neuron من الطرق السابقة

* في بداية الحل نحدد المنطقة (region) التي الـ inputs (x_1, x_2) فيها:

① $x_3 = 0$ ② $x_3 = 1$ ③ $x_3 = 0$ and $S = 0$
④ $x_3 = 0$ and $S = 1$ ⑤ $x_3 = 1$ and $S = 0$ ⑥ $x_3 = 1$ and $S = 1$
⑦ $S = 0$ ⑧ $S = 1$

$$y_3 = x_1 + x_2 - 1.5$$

- $x_3 = 0 \longrightarrow y_3 < 0$ or $x_1 + x_2 < 1.5$
- $x_3 = 1 \longrightarrow y_3 > 0$ or $x_1 + x_2 > 1.5$

$$y_4 = x_1 + x_2 - 2x_3 - 0.5$$
$$y_4 = x_1 + x_2 - 0.5 \text{ when } x_3 = 0$$
$$y_4 = x_1 + x_2 - 2.5 \text{ when } x_3 = 1$$

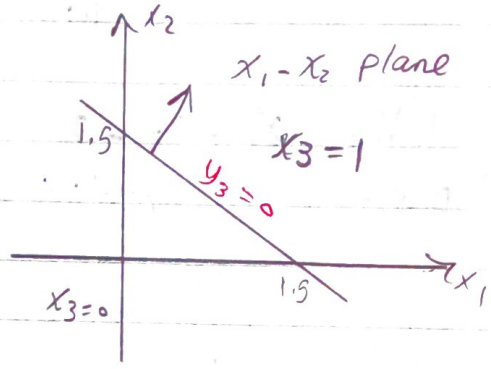

* $x_3 = 0$, $S = 0$

$x_1 + x_2 < 1.5$
$x_1 + x_2 < 0.5$ $\}\rightarrow x_1 + x_2 < 0.5$

* $x_3 = 0$, $S = 1$

$x_1 + x_2 < 1.5$
$x_1 + x_2 > 0.5$ $\}\rightarrow 0.5 < x_1 + x_2 < 1.5$

* $x_3 = 1$, $S = 0$

$x_1 + x_2 > 1.5$
$x_1 + x_2 < 2.5$ $\}\rightarrow 1.5 < x_1 + x_2 < 2.5$

* $x_3 = 1$, $S = 1$

$x_1 + x_2 > 1.5$
$x_1 + x_2 > 2.5$ $\}\rightarrow x_1 + x_2 > 2.5$

يمكن تلخيص النتائج بالشكل التالي

Condition	x_3	S
$x_1 + x_2 < 0.5$	0	0
$0.5 < x_1 + x_2 < 1.5$	0	1
$1.5 < x_1 + x_2 < 2.5$	1	0
$x_1 + x_2 > 2.5$	1	1

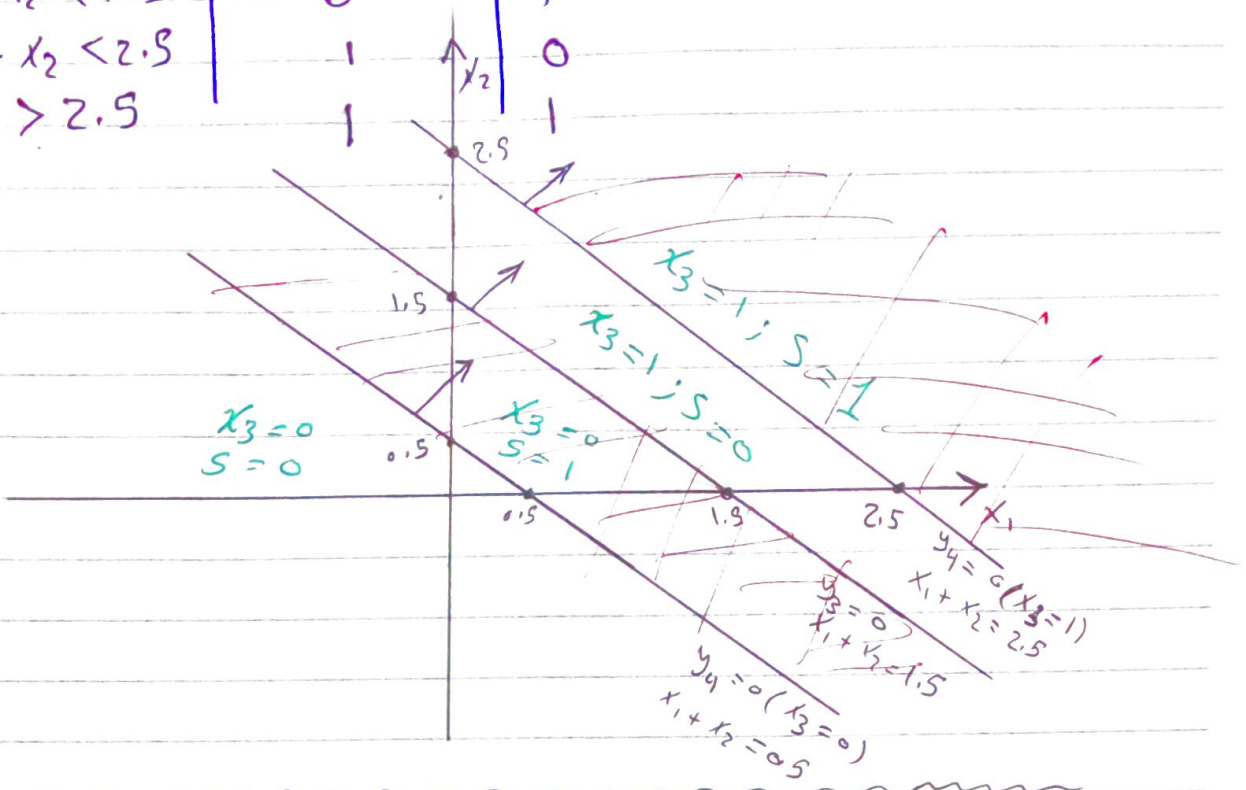

مسألة للتجربة

صمم شبكة تحقق الشكل

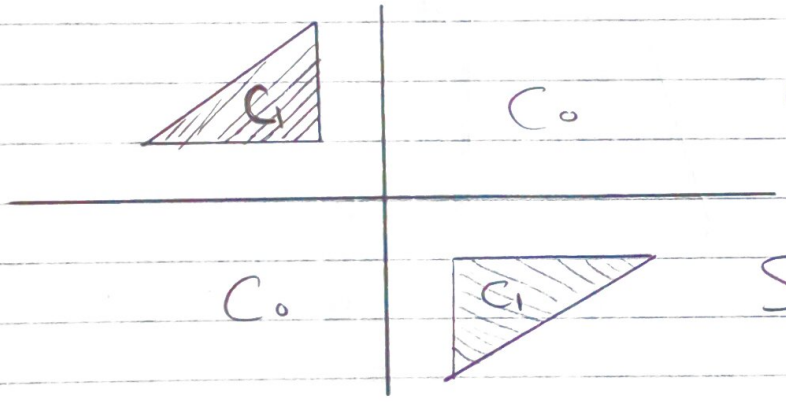

Self Study

10/10

Section 3

محمد جدي عبد الغفار سلام

a) $S = \tanh\left(\frac{\alpha y}{2}\right)$ (Another form)

$$\frac{dS}{dy} = \frac{\alpha}{2}\,\text{sech}^2\left(\frac{\alpha y}{2}\right)$$

we have $\text{sech}^2\left(\frac{\alpha y}{2}\right) = 1 - \tanh^2\left(\frac{\alpha y}{2}\right)$

$$\therefore \frac{dS}{dy} = 0.5\,\alpha\left(1 - \tanh^2\frac{\alpha y}{2}\right)$$

$$= 0.5\,\alpha(1 - S^2)$$

4

b)

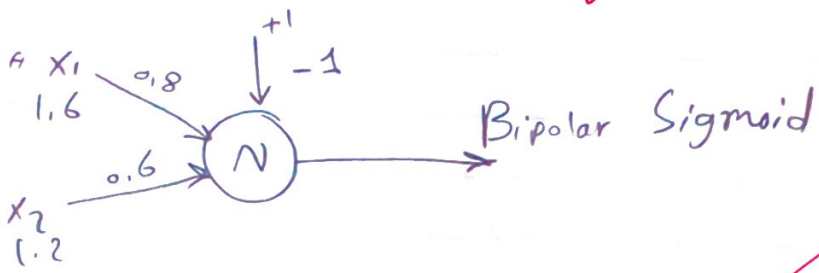

$$* \quad y = w_1 x_1 + w_2 x_2 + w_0$$

$$= (0.8)(1.6) + (0.6)(1.2) + -1$$

$$= \boxed{1}$$

$$\frac{dS}{dy} = 0.5\,\alpha(1 - S^2) = 0.25$$

$$\Rightarrow (1 - S^2) = 0.5 * \frac{1}{\alpha}$$

$$\Rightarrow S^2 = -\left(0.5\,\frac{1}{\alpha} - 1\right)$$

$$S^2 = \tanh^2\left(\frac{\alpha}{2}\right) = 1 - \frac{0.5}{\alpha}$$

$$\tanh^2\left(\frac{\alpha}{2}\right) = 1 - \frac{0.5}{\alpha}$$

$$\Rightarrow \boxed{\alpha = 0.5369}$$

$$\therefore S = \tanh\left(\frac{0.5369}{2}\right) = \boxed{0.2622}$$

6